برای دریافت نمونه سوال به سایت عصر آموزش مراجعه نمایید. کلیک کنید www.AsreAmouzesh.ir

باسمه تعالی

نام :
نام خانوادگی :
نام پدر:
نام آموزشگاه :دبیرستان روش نوین(دوره اول)
نام درس : **ریاضی**

وزارت آموزش و پرورش
اداره کل آموزش و پرورش استان یزد
مدیریت آموزش و پرورش ناحیه دو یزد
پایه : **هفتم**

تاریخ امتحان : ۱۴۰۲/۱۰/۷
تعداد صفحه : ۳
تعداد سؤال : ۱۶
زمان شروع : ۸:۰۰ صبح
وقت: ۸۰ دقیقه

ضمن خیرمقدم به دانش آموزان وداوطلبان عزیز، سؤالات زیررابه دقت بخوانید و با توکّل به خدا وآرامش خاطر پاسخ دهید.

نام و نام خانوادگی:	نمره با عدد : نمره با حروف :

ردیف	سؤالات	بارم
۱	درستی یا نادرستی عبارت های زیر را مشخص کنید. الف) قرینه ی هر عدد صحیح منفی از صفر کوچکتر است. ☐ صحیح ☐ غلط ب) از دو نقطه فقط یک خط راست می گذرد. ☐ صحیح ☐ غلط پ) جمله های $-۳xy$ و $۷xy$ متشابه هستند. ☐ صحیح ☐ غلط ت) چند ضلعی که همه ی اضلاع آن برابر باشند را چندضلعی منتظم می نامند. ☐ صحیح ☐ غلط	۱
۲	جاهای خالی را با عدد یا عبارت مناسب کامل کنید. الف) اگر طول یک مستطیل **a** و عرض آن **b** باشد، مساحت آن برابر است با ..... . ب) چند ضلعی که هیچ زاویه ای بیشتر از ۱۸۰ درجه ندارد چند ضلعی..... نام دارد. پ) حاصل عبارت $-(-(+(-(-۲۷))))$ برابر..... است . ت) ..... تنها تبدیل هندسی است که جهت را عوض نمی کند.	۱
۳	گزینه مناسب را انتخاب کنید. الف) عبارت $۳ab - a$ یک عبارت چند جمله ای است؟ ☐ سه جمله ای ☐ دو جمله ای ☐ چهار جمله ای ☐ یک جمله ای ب) جمله پنجم الگوی $\frac{۳a-۱}{۳a+۱}$ برابر با کدام گزینه است ؟ ☐ $\frac{۱۴}{۱۶}$ ☐ $\frac{۱۱}{۹}$ ☐ $\frac{۳}{۲}$ ☐ $-\frac{۱۱}{۹}$ پ) حاصل کدام گزینه مثبت است؟ ☐ $۵۰۰-۵۸۰$ ☐ $-۷۹۳-(-۴۰۰)$ ☐ $-۴۲۰۰+۴۹۰۰$ ☐ $-۷۰۰-(+۷۳۵)$ ث) مساحت شکل مقابل به صورت جبری کدام گزینه است ؟ ۳ $a+b$ ☐ ☐ $۲a+۲b+۶$ ☐ $a+۳b$ ☐ $۳a+b$ ☐ $۳a+۳b$	۱

برای دریافت نمونه سوال به سایت عصر آموزش مراجعه نمایید. کلیک کنید www.AsreAmouzesh.ir

برای دریافت نمونه سوال به سایت عصر آموزش مراجعه نمایید. کلیک کنید www.AsreAmouzesh.ir

باسمه تعالی

نام :
نام خانوادگی :
نام پدر:
نام آموزشگاه :دبیرستان روش نوین(دوره اول)
نام درس : **ریاضی**

وزارت آموزش و پرورش
اداره کل آموزش و پرورش استان یزد
مدیریت آموزش و پرورش ناحیه دو یزد
پایه : **هفتم**

تاریخ امتحان : ۱۴۰۲/۱۰/۷
تعداد صفحه : ۳
تعداد سؤال : ۱۶
زمان شروع : ۸:۰۰ صبح
وقت: ۸۰ دقیقه

۴	در یک روز زمستانی دمای هوای یزد ۶ درجه بالای صفراست. دمای هوای اردبیل ۱۰ درجه از یزد سردتر بوده است. الف) دمای هوای اردبیل چند درجه است؟ ب) میانگین دمای هوای یزد و اردبیل چقدر است؟	۱
۵	حاصل عبارت های زیر را بدست آورید. $-۱۲۱ + (-۲۴۵) =$ $+۲ - ۴ \times (-۵) \div ۴ =$ $(-۱۶ \div ۸) \times (-۳ - (-۵)) =$	۱.۵
۶	در یک مزرعه ۲۰ مرغ وگوسفند وجود دارد که روی هم ۵۴ پا دارند. چند تا از این حیوانات مرغ و چند تا گوسفند هستند؟	۱
۷	جمع زیر را روی محور نشان دهید و حاصل را بدست آورید؟ $+۴ + (-۷) =$	۱
۸	توپی از ارتفاع ۲۴ متری سطح زمین رها میشود و پس از زمین خوردن نصف ارتفاع قبلی خود بالا می آید. این توپ از لحظه ی رها شدن تا سومین مرتبه ای که به زمین می خورد چند متر حرکت کرده است؟	۱
۹	حاصل ضرب دو عدد صحیح ۸- و حاصل جمع آنها بیشترین مقدار ممکن است . آن دوعدد را بنویسید.	۱

www.AsreAmouzesh.ir
www.AsreAmouzesh.ir

برای دریافت نمونه سوال به سایت عصر آموزش مراجعه نمایید. کلیک کنید www.AsreAmouzesh.ir

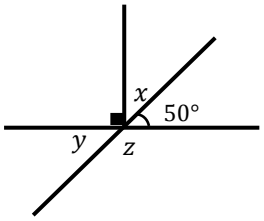
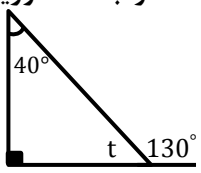
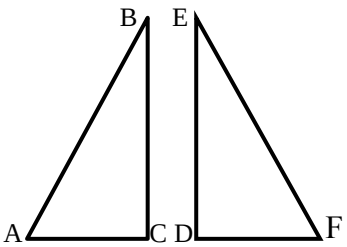
برای دریافت نمونه سوال به سایت عصر آموزش مراجعه نمایید. کلیک کنید www.AsreAmouzesh.ir

باسمه تعالی

نام :
نام خانوادگی :
نام پدر:
نام آموزشگاه :دبیرستان روش نوین(دوره اول)
نام درس : **ریاضی**

وزارت آموزش و پرورش
اداره کل آموزش و پرورش استان یزد
مدیریت آموزش و پرورش ناحیه دو یزد
پایه : **هفتم**

تاریخ امتحان : ۱۴۰۲/۱۰/۷
تعداد صفحه : ۳
تعداد سؤال : ۱۶
زمان شروع : ۸:۰۰ صبح
وقت: ۸۰ دقیقه

۱۰	برای الگوی روبرو : الف) دو جمله بعدی الگو را بنویسید. ۳,۵,۷,۹ , ... , ... ب)جمله nام دنباله عددی روبرو را بنویسید. ..... ج) در قست (ب) جمله دهم چه عددی است؟ ..... ۱۱,۲۱,۳۱,۴۱ , ... , ...	۱.۵
۱۱	الف) عبارت جبری زیر را ساده کنید. $-۴(۲b-a)+۸b+۳a=$ ب) مقدار عددی عبارت زیر را به ازای $m=۲, n=-۳$ حساب کنید. $-۶n+nm=$	۲
۱۲	معادلالت زیر را حل کنید. $۳x+۴=۲x+۱۰$ $۶x+۷=-۱۷$	۱.۵
۱۳	برای مسئله ی زیر معادله ای بنویسید و سپس با حل معادله جواب مسئله را پیدا کنید. به شش برابر عددی ۴ واحد اضافه کرده ایم حاصل ۵۸ شد .آن عدد را بیابید ؟	۱.۵
۱۴	اگر پاره خط های کوچک با هم مساوی باشند، تساوی های زیر را کامل کنید. A B C D E $\overline{AD}-\overline{BD}=\cdots$ $\overline{AE}=\cdots\overline{CD}$	۱
۱۵	اندازه زاویه های خواسته شده را بدست آورید.  $\hat{x}=\cdots$ $\hat{y}=\cdots$ $\hat{z}=\cdots$  $\hat{t}=\cdots$	۱
۱۶	با توجه به شکل به سوالات زیر پاسخ دهید. الف)شکل ABC با چه تبدیلی به شکل DEF تبدیل میشود؟ ..... ب)تساوی اجزای متناظر را بنویسید؟  $\hat{A}=\cdots$ $\overline{AB}=\cdots$ $\overline{BC}=\cdots$	۲

« موفق و سربلند باشید»

طراح سوال: صدیقه دهقان

برای دریافت نمونه سوال به سایت عصر آموزش مراجعه نمایید. کلیک کنید www.AsreAmouzesh.ir

www.AsreAmouzesh.ir
www.AsreAmouzesh.ir

برای دریافت نمونه سوال به سایت عصر آموزش مراجعه نمایید. کلیک کنید www.AsreAmouzesh.ir

باسمه تعالی

نام :
نام خانوادگی :
نام پدر:
نام آموزشگاه :دبیرستان روش نوین(دوره اول)
نام درس : **ریاضی**

وزارت آموزش و پرورش
اداره کل آموزش و پرورش استان یزد
مدیریت آموزش و پرورش ناحیه دو یزد
پایه : **هفتم**

تاریخ امتحان : ۱۴۰۲/۱۰/۷
تعداد صفحه : ۳
تعداد سؤال : ۱۶
زمان شروع : ۸:۰۰ صبح
وقت: ۸۰ دقیقه

ضمن خیرمقدم به دانش آموزان وداوطلبان عزیز، سؤالات زیررابه دقت بخوانید و با توکّل به خدا وآرامش خاطر پاسخ دهید.

نام و نام خانوادگی:	نمره با عدد : نمره با حروف :

ردیف	سؤالات	بارم
۱	درستی یا نادرستی عبارت های زیر را مشخص کنید. الف) قرینه ی هر عدد صحیح منفی از صفر کوچکتر است. ☐ صحیح ☑ غلط ب) از دو نقطه فقط یک خط راست می گذرد. ☑ صحیح ☐ غلط پ) جمله های $-۳xy$ و $۷xy$ متشابه هستند. ☑ صحیح ☐ غلط ت) چند ضلعی که همه ی اضلاع آن برابر باشند را چندضلعی منتظم می نامند. ☐ صحیح ☑ غلط	۱
۲	جاهای خالی را با عدد یا عبارت مناسب کامل کنید. الف) اگر طول یک مستطیل a و عرض آن b باشد، مساحت آن برابر است با ..S=axb.. . ب) چند ضلعی که هیچ زاویه ای بیشتر از ۱۸۰ درجه ندارد چند ضلعی..محدب (کوژ).. نام دارد. پ) حاصل عبارت $-(-(+(-(-(-۲۷)))))$ برابر..+۲۷.. است . ت) ..انتقال.. تنها تبدیل هندسی است که جهت را عوض نمی کند.	۱
۳	گزینه مناسب را انتخاب کنید. الف) عبارت $۳ab - a$ یک عبارت چند جمله ای است؟ ☐ سه جمله ای ☑ دو جمله ای ☐ چهار جمله ای ☐ یک جمله ای ب) جمله پنجم الگوی $\frac{۳a-۱}{۳a+۱}$ برابر با کدام گزینه است ؟ ☑ $\frac{۱۴}{۱۶}$ ☐ $\frac{۱۱}{۹}$ ☐ $\frac{۳}{۲}$ ☐ $-\frac{۱۱}{۹}$ پ) حاصل کدام گزینه مثبت است؟ ☐ $۵۰۰-۵۸۰$ ☐ $-۷۹۳-(-۴۰۰)$ ☑ $-۴۲۰۰+۴۹۰۰$ ☐ $-۷۰۰-(+۷۳۵)$ ث) مساحت شکل مقابل به صورت جبری کدام گزینه است ؟ $a+b$ ۳ ☐ $۲a+۲b+۶$ ☐ $a+۳b$ ☐ $۳a+b$ ☑ $۳a+۳b$	۱

برای دریافت نمونه سوال به سایت عصر آموزش مراجعه نمایید. کلیک کنید www.AsreAmouzesh.ir

برای دریافت نمونه سوال به سایت عصر آموزش مراجعه نمایید. کلیک کنید www.AsreAmouzesh.ir

باسمه تعالی

نام :
نام خانوادگی :
نام پدر:
نام آموزشگاه :دبیرستان روش نوین(دوره اول)
نام درس : **ریاضی**

وزارت آموزش و پرورش
اداره کل آموزش و پرورش استان یزد
مدیریت آموزش و پرورش ناحیه دو یزد
پایه : **هفتم**

تاریخ امتحان : ۱۴۰۲/۱۰/۷
تعداد صفحه : ۳
تعداد سؤال : ۱۶
زمان شروع : ۸:۰۰ صبح
وقت: ۸۰ دقیقه

---

۴ (۱)

در یک روز زمستانی دمای هوای یزد ۶ درجه بالای صفراست. دمای هوای اردبیل ۱۰ درجه از یزد سردتر بوده است.

الف) دمای هوای اردبیل چند درجه است؟ -۴

یزد $= +۶$

اردبیل $= +۶ + (-۱۰) = -۴$

ب) میانگین دمای هوای یزد و اردبیل چقدر است؟ ۱

$\frac{۶ + (-۴)}{۲} = \frac{۲}{۲} = ۱$

۵ (۱.۵)

حاصل عبارت های زیر را بدست آورید.

$-۱۲۱ + (-۲۴۵) = -۱۲۱ - ۲۴۵ = -۳۶۶$

$+۲ - ۴ \times (-۵) \div ۴ = +۲ + ۵ = ۷$

$(-۱۶ \div ۸) \times (-۳ - (-۵)) = -۴$

۶ (۱)

در یک مزرعه ۲۰ مرغ وگوسفند وجود دارد که روی هم ۵۴ پا دارند. چند تا از این حیوانات مرغ و چند تا گوسفند هستند؟

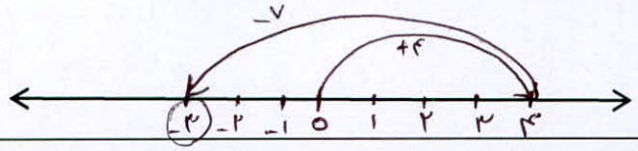
اعداد ۱۳ مرغ و ۷ گوسفند

مرغ	گوسفند	بررسی
۱۰	۱۰	$۲۰ + ۴۰ = ۶۰$ ✗
۱۱	۹	$۲۲ + ۳۶ = ۵۸$ ✗
۱۲	۸	$۲۴ + ۳۲ = ۵۶$ ✗
۱۳	۷	$۲۶ + ۲۸ = ۵۴$ ✓

۷ (۱)

جمع زیر را روی محور نشان دهید و حاصل را بدست آورید؟

$+۴ + (-۷) = -۳$



۸ (۱)

توپی از ارتفاع ۲۴ متری سطح زمین رها میشود و پس از زمین خوردن نصف ارتفاع قبلی خود بالا می آید. این توپ از لحظه ی رها شدن تا سومین مرتبه ای که به زمین می خورد چند متر حرکت کرده است؟

$۲۴ + ۱۲ + ۱۲ + ۶ + ۶ = ۶۰$

۶۰ متر حرکت کرده است.

۹ (۱)

حاصل ضرب دو عدد صحیح ۸- و حاصل جمع آنها بیشترین مقدار ممکن است . آن دوعدد را بنویسید.

۸ و ۱-

عدد اول	عدد دوم	مجموع
۱	-۸	$۱ + (-۸) = -۷$
۲	-۴	$۲ + (-۴) = -۲$
۴	-۲	$۴ + (-۲) = ۲$
۸	-۱	$۸ + (-۱) = ۷$

برای دریافت نمونه سوال به سایت عصر آموزش مراجعه نمایید. کلیک کنید www.AsreAmouzesh.ir

برای دریافت نمونه سوال به سایت عصر آموزش مراجعه نمایید. کلیک کنید www.AsreAmouzesh.ir

باسمه تعالی

نام :
نام خانوادگی :
نام پدر:
نام آموزشگاه :دبیرستان روش نوین(دوره اول)
نام درس : **ریاضی**

وزارت آموزش و پرورش
اداره کل آموزش و پرورش استان یزد
مدیریت آموزش و پرورش ناحیه دو یزد
پایه : **هفتم**

تاریخ امتحان : ۱۴۰۲/۱۰/۷
تعداد صفحه : ۳
تعداد سؤال : ۱۶
زمان شروع : ۸:۰۰ صبح
وقت: ۸۰ دقیقه

۱۰ (۱.۵)

برای الگوی روبرو : الف) دو جمله بعدی الگو را بنویسید. ۳,۵,۷,۹ , ... , ...

ب)جمله nام دنباله عددی روبرو را بنویسید. ..... $10n+1$

ج) در قسمت (ب) جمله دهم چه عددی است؟ $(10\times10)+10+1$

۱۱ (۲)

الف) عبارت جبری زیر را ساده کنید. $-۴(۲b-a)+۸b+۳a=$

$-8b+4a+8b+3a=7a$

ب) مقدار عددی عبارت زیر را به ازای $m=۲, n=-۳$ حساب کنید. $-۶n+nm=$

$(-6\times(-3))+(2\times(-3))=+18-6=12$

۱۲ (۱.۵)

معادلات زیر را حل کنید. $۳x+۴=۲x+۱۰$

$3x-2x=10-4$

$x=6$

$۶x+۷=-۱۷$

$6x=-17-7$

$6x=-24$

$x=-4$

۱۳ (۱.۵)

برای مسئله ی زیر معادله ای بنویسید و سپس با حل معادله جواب مسئله را پیدا کنید.
به شش برابر عددی ۴ واحد اضافه کرده ایم حاصل ۵۸ شد .آن عدد را بیابید ؟

$6x+4=58$
$6x=54$
$x=9$

۱۴ (۱)

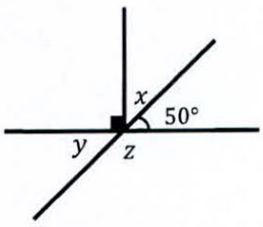
اگر پاره خط های کوچک با هم مساوی باشند، تساوی های زیر را کامل کنید.



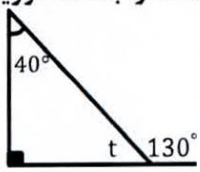
$\overline{AD}-\overline{BD}=\overline{AB}$ $\overline{AE}=4\overline{CD}$

۱۵ (۱)

اندازه زاویه های خواسته شده را بدست آورید.



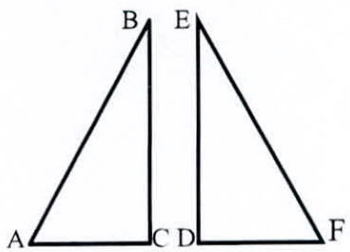
$\hat{x}=40^\circ$
$\hat{y}=50^\circ$
$\hat{z}=180-50=130^\circ$



$\hat{t}=180-130=50^\circ$

۱۶ (۲)

با توجه به شکل به سوالات زیر پاسخ دهید.



الف)شکل ABC با چه تبدیلی به شکل DEF تبدیل میشود؟ ..... تقارن .....

ب)تساوی اجزای متناظر را بنویسید؟

$\hat{A}=\hat{F}$
$\overline{AB}=\overline{FE}$
$\overline{BC}=\overline{ED}$

طراح سوال: صدیقه دهقان

«موفق و سربلند باشید»

برای دریافت نمونه سوال به سایت عصر آموزش مراجعه نمایید. کلیک کنید www.AsreAmouzesh.ir